１８．内角①

1 次の多角形の内角の和を求めなさい。。

① 五角形

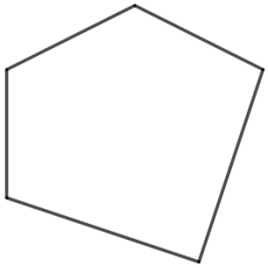

② 八角形

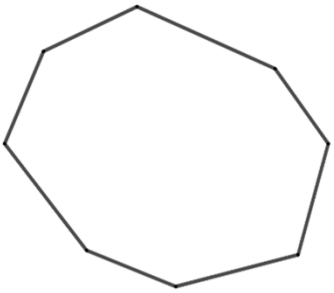

③ 六角形

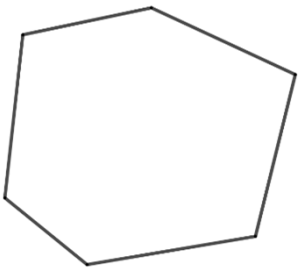

④ 九角形

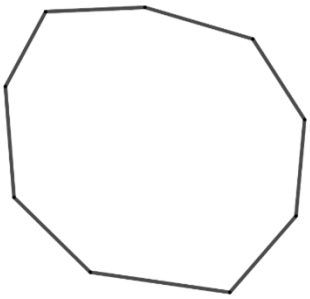

2 次のような多角形は、何角形か答えなさい。

① 内角の和が、３６０°

② 内角の和が、９００°

③ 内角の和が、１４４０°

④ 内角の和が、１８００°